SUJET BLANC NON OFFICIEL

CAP (Fleuriste de mode)

Entreprise et communication professionnelles

Édition 2026

Sujet d'entraînement rédigé par FormaV. Il n'a pas été donné à l'examen : ce n'est ni un sujet officiel ni une annale. Les entreprises et les données qu'il contient sont fictives.

Ce document a été mis en ligne par l'organisme FormaV®.

Toute reproduction, représentation ou diffusion, même partielle, sans autorisation préalable, est strictement interdite.

Pour consulter tous nos sujets d'annales et corrigés du CAP Fleuriste de mode, veuillez visiter :
capfleuristedemode.fr/annales-sujets-et-corriges

CERTIFICAT D'APTITUDE PROFESSIONNELLE

FLEURISTE DE MODE

ÉDITION 2026

ÉPREUVE EP1 : ÉTUDES STYLISTIQUE, GRAPHIQUE ET TECHNIQUE

Coefficient : 6 Durée : 4 heures

Documents techniques et documents réponse fournis avec le sujet. Matériel de dessin usuel, règle graduée, crayons, crayons de couleur et calculatrice autorisés.

Composition de l'épreuve	Support
PARTIE 1 : Analyse de la demande et des références stylistiques (4 points)	Dossier Questionnement
PARTIE 2 : Proposition graphique et justification des choix (6 points)	Dossier Questionnement
PARTIE 3 : Étude technique, matières et calculs de fabrication (5 points)	Dossier Questionnement
PARTIE 4 : Organisation du poste et prévention des risques (5 points)	Dossier Questionnement
DOSSIER TECHNIQUE ET RESSOURCES (DT 1, DT 2, DT 3)	Fourni avec le sujet
DOCUMENTS RÉPONSES (DR 1, DR 2) : À RENDRE AVEC LA COPIE	Fin de sujet

L'usage de calculatrice avec mode examen actif est autorisé. L'usage de calculatrice sans mémoire, « type collège », est autorisé.

Ce sujet comporte 12 pages numérotées de 1/12 à 12/12.
Dès que le sujet vous est remis, assurez-vous qu'il est complet.

LES DOCUMENTS RÉPONSES SITUÉS EN FIN DE DOSSIER SONT À COMPLÉTER ET À RENDRE OBLIGATOIREMENT AVEC LA COPIE.

FormaV - document d'entraînement non officiel

DOSSIER SUJET

MISE EN SITUATION PROFESSIONNELLE ET CAHIER DES CHARGES : ATELIER IRIS & PLUME, 18 RUE DES CARMES, 31000 TOULOUSE

L'atelier Iris & Plume réalise des accessoires floraux artificiels destinés à la mode et aux cérémonies. Une cliente professionnelle commande une série de douze accessoires de cheveux assortis pour une présentation de collection.

Vous intervenez en amont de la fabrication. À partir du dossier technique, vous analysez la demande, proposez une réponse graphique annotée, puis préparez la fabrication. L'accessoire doit être léger, confortable au porté, solidement assemblé et réalisable avec les matières et les moyens disponibles dans l'atelier.

Le produit demandé est une fleur textile montée sur une pince à cheveux. Le diamètre fini visé est de 90 mm, avec une tolérance de 5 mm. La fleur comporte cinq pétales, un cœur décoratif et une base de fixation. Le coloris principal est ivoire rosé, avec un cœur doré mat. La série doit être prête en une journée d'atelier.

Les calculs seront présentés avec leurs unités et les résultats arrondis de façon adaptée. Les documents DT 1 à DT 3 font partie du sujet. Les documents réponse DR 1 et DR 2 sont à rendre avec la copie.

PARTIE 1 : Analyse de la demande et des références stylistiques (4 points)

Partie A : Collecter, classer et analyser les informations

À l'aide du cahier des charges et du DT 1, repérez les éléments qui orientent la conception de l'accessoire. Distinguez les contraintes d'usage, les choix esthétiques et les informations de contexte stylistique.

Synthèse du cahier des charges

Critère	Donnée imposée	Conséquence pour la conception
Quantité	12 accessoires identiques	Concevoir un produit reproductible
Dimensions	Diamètre fini de 90 mm, tolérance ± 5 mm	Vérifier l'encombrement après montage
Structure	5 pétales, 1 cœur, 1 base de fixation	Prévoir les éléments et leur ordre d'assemblage
Coloris	Ivoire rosé et doré mat	Choisir une harmonie conforme à la commande
Usage	Accessoire de cheveux léger et confortable	Éviter les éléments agressifs ou instables

Données de la commande à prendre en compte pour l'étude

1.1 (1,5 point) Relevez dans le cahier des charges trois contraintes différentes parmi les contraintes esthétiques, dimensionnelles, d'usage et de production. Pour chacune, indiquez une conséquence concrète sur la conception ou la fabrication.

FormaV - document d'entraînement non officiel

1.2 (1,5 point) À partir du DT 1, identifiez deux caractéristiques stylistiques de la référence florale et expliquez comment elles peuvent être adaptées à un accessoire de mode contemporain sans perdre le lien avec la référence.

1.3 (1 point) Classez les informations de la commande en deux catégories : informations indispensables à la fabrication et informations utiles à la présentation commerciale. Donnez deux exemples pour chaque catégorie.

PARTIE 2 : Proposition graphique et justification des choix (6 points)

Partie A : Proposer et traduire graphiquement une solution

Vous réalisez une proposition graphique annotée de l'accessoire en respectant la commande. La proposition doit permettre à une autre personne de comprendre l'aspect du produit et les principaux choix de conception. Utilisez le DR 2 ou une feuille de copie clairement repérée. Les dimensions du croquis peuvent être adaptées pour la représentation, mais les annotations doivent indiquer les dimensions réelles prévues.

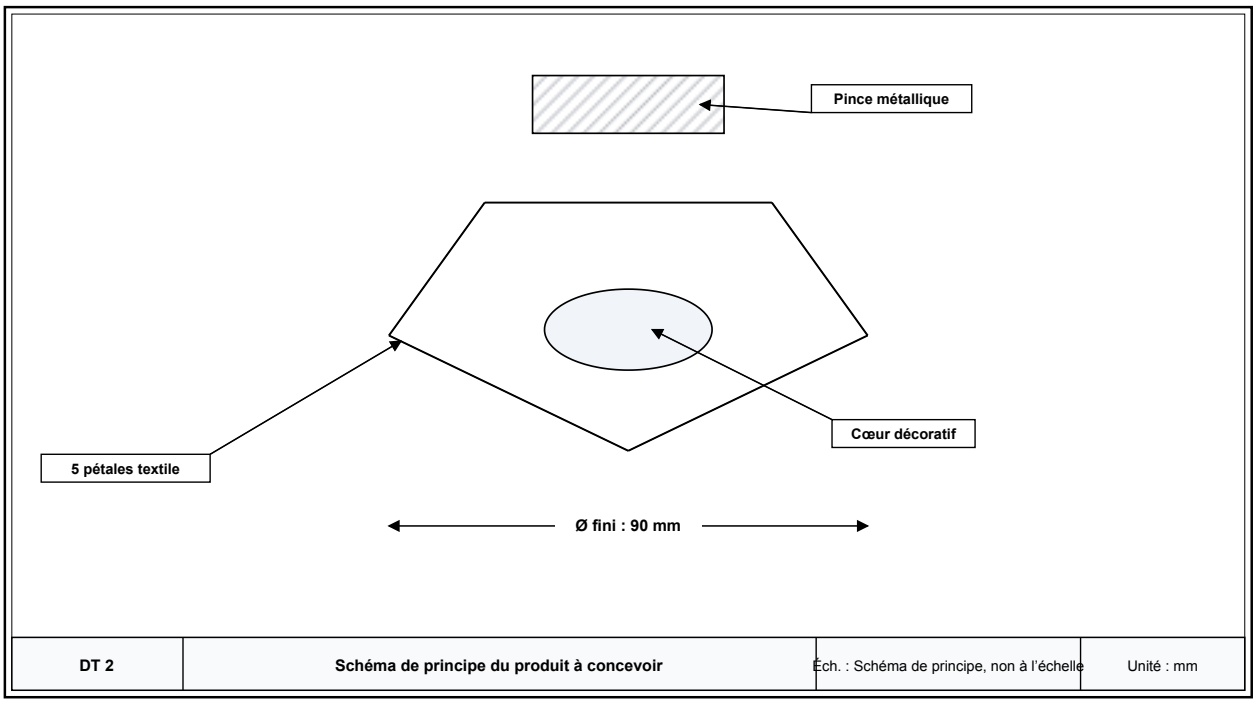

DT 2	Schéma de principe du produit à concevoir	Éch. : Schéma de principe, non à l'échelle	Unité : mm

2.1 (2 points) Réalisez une proposition graphique annotée de face de l'accessoire. Représentez les cinq pétales, le cœur et la zone de fixation. Indiquez le diamètre fini visé, les coloris, les matières envisagées et au moins deux détails de finition.

2.2 (2,5 points) Justifiez vos choix de forme, de couleur et de matière en les reliant à la demande de la cliente et à la référence stylistique du DT 1. Votre réponse doit présenter au moins trois choix justifiés.

2.3 (1,5 point) Indiquez deux vérifications à effectuer sur un premier exemplaire avant de lancer la série de douze accessoires. Précisez pour chacune le critère à contrôler et une méthode de vérification.

FormaV - document d'entraînement non officiel

PARTIE 3 : Étude technique, matières et calculs de fabrication (5 points)

Partie B : Déterminer les matières et préparer les opérations

Les dimensions des pièces et les prix d'achat nécessaires aux calculs figurent dans les DT 2 et DT 3. Pour le calcul de tissu, chaque pétale est découpé dans un rectangle de 75 mm × 55 mm. La laize utile est de 1 400 mm. Les pétales peuvent être orientés dans le sens le plus favorable à la disposition. Prévoir une majoration de 10 % pour les chutes et les défauts de coupe. Pour les achats, arrondir la longueur de tissu au multiple supérieur de 0,10 m.

Données de fabrication et prix unitaires

Élément	Consommation par accessoire	Conditionnement ou prix
Tissu principal	5 rectangles de 75 mm × 55 mm	Laize 1 400 mm, 18,00 € par mètre linéaire
Cœur décoratif	1 pièce	0,22 € par pièce
Pince métallique	1 pièce	0,48 € par pièce
Fil de couture	0,25 m	0,03 € par mètre
Temps d'assemblage	6 min par accessoire	Préparation du poste : 15 min par série

Valeurs à utiliser pour les calculs de la série de douze pièces

3.1 (1,5 point) Calculez le nombre de pétales à découper pour la commande. Déterminez combien de rectangles peuvent être placés sur une rangée de tissu de 1 400 mm de large en orientant le côté de 55 mm dans la largeur. Calculez le nombre de rangées nécessaires et la longueur de tissu avant majoration.

3.2 (2 points) Ajoutez 10 % à la longueur calculée, puis arrondissez au multiple supérieur de 0,10 m. Calculez le coût du tissu acheté, le coût des autres fournitures pour douze accessoires et le coût total de matière de la série. Présentez les formules utilisées, notamment la majoration de chutes : $L_{prévisionnelle} = L_{utile} \times (1 + 0,10)$.

3.3 (1,5 point) Calculez la durée totale d'assemblage de la série, puis la durée totale de travail en ajoutant les 15 minutes de préparation du poste. Proposez un ordre logique de quatre opérations de fabrication, depuis la préparation des pièces jusqu'au contrôle final.

PARTIE 4 : Organisation du poste et prévention des risques (5 points)

Partie B : Préparer l'outillage, organiser le poste et travailler en sécurité

La fabrication se déroule sur un poste de couture et d'assemblage manuel. Les risques à prendre en compte sont notamment les piqûres avec les aiguilles, les coupures lors de la découpe, la gêne liée à un poste encombré et les brûlures si un outil chauffant est utilisé pour la mise en forme. Les principes généraux de prévention du Code du travail s'appliquent, notamment l'évaluation des risques et la mise en place de mesures de prévention adaptées.

FormaV - document d'entraînement non officiel

Analyse de risques de l'atelier

Situation	Risque possible	Mesure de prévention à proposer
Découpe des pièces	Coupure ou blessure par l'outil	.....
Couture à la main	Piqûre avec une aiguille	.....
Poste encombré	Perte de matériel, gêne ou incident	.....
Mise en forme avec outil chauffant, si nécessaire	Brûlure ou départ de feu	.....

Situations professionnelles à analyser avant la fabrication

4.1 (2 points) Complétez le tableau d'analyse des risques du DR 1 en indiquant une mesure de prévention adaptée pour chaque situation. Les mesures doivent être concrètes et applicables dans l'atelier.

4.2 (1,5 point) Établissez la liste de l'outillage et des matériels nécessaires pour découper, assembler et contrôler l'accessoire. Pour chaque élément, précisez l'opération à laquelle il est associé.

4.3 (1,5 point) Décrivez l'organisation du poste avant le lancement de la série : préparation des matières, disposition des outils, gestion des aiguilles et chutes, maintien de la propreté et contrôle final. Donnez au moins trois actions ordonnées.

FormaV - document d'entraînement non officiel

DOSSIER TECHNIQUE ET RESSOURCES

Documents ressources nécessaires à la résolution du sujet

DT 1 : COMMANDE CLIENT ET RÉFÉRENCES STYLISTIQUES

La cliente souhaite un accessoire de cheveux destiné à une tenue de cérémonie contemporaine. La référence stylistique est une fleur à cinq pétales arrondis, disposés autour d'un cœur central. La silhouette doit rester lisible et équilibrée, sans surcharge décorative. La palette associe un ton clair et doux à un accent métallique discret. Le produit est destiné à être porté dans les cheveux : les éléments doivent être solidement fixés, ne pas présenter d'arête vive et rester agréables au contact.

Commande : douze accessoires identiques. Diamètre fini visé : 90 mm, tolérance ± 5 mm. Cinq pétales en tissu, un cœur décoratif, une base de fixation par pince métallique. Coloris principal ivoire rosé, cœur doré mat. Le résultat doit être léger, régulier et reproductible.

Pour l'analyse de sécurité, appliquer les principes généraux de prévention et les consignes de sécurité de l'atelier. Aucune norme de produit particulière n'est imposée par les données de la commande.

Exigences et critères de contrôle

Exigence	Critère observable	Moment du contrôle
Respect de la silhouette	Cinq pétales visibles et répartis autour du cœur	Prototype et contrôle visuel de série
Respect des dimensions	Diamètre compris entre 85 mm et 95 mm	Après assemblage
Solidité de fixation	Cœur et pince ne se détachent pas lors d'une manipulation normale	Prototype et contrôle final
Confort et sécurité	Aucune arête vive ni extrémité de fil saillante	Contrôle final
Conformité esthétique	Coloris ivoire rosé et doré mat, assemblage propre	Contrôle final

Critères à vérifier sur le prototype puis sur la série

DT 2 : SCHÉMA DE PRINCIPE ET DIMENSIONS DES COMPOSANTS

Le schéma représente les composants et leurs relations, sans imposer une forme unique de dessin. Dimensions nominales des pièces à préparer : pétales en rectangles de 75 mm × 55 mm avant mise en forme, au nombre de cinq par accessoire ; cœur décoratif de 20 mm de diamètre, une pièce par accessoire ; base textile de renfort de 30 mm × 20 mm, une pièce par accessoire. La pince métallique mesure 60 mm de longueur, une pièce par accessoire. Le diamètre fini de la fleur assemblée est de 90 mm, avec une tolérance de ± 5 mm.

Les cinq pétales sont assemblés autour du cœur. La base de renfort est placée au revers pour contribuer à la fixation de la fleur sur la pince. Les dimensions des rectangles de coupe sont des dimensions de préparation, et non les dimensions apparentes des pétales après mise en forme.

FormaV - document d'entraînement non officiel

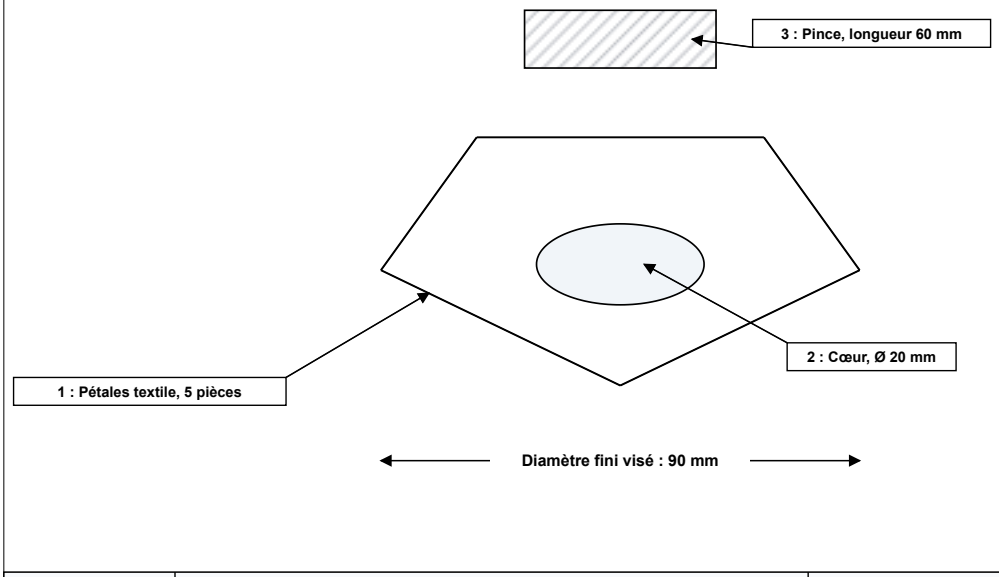

DT 2	Vue de face et éléments de fixation	Éch. : Schéma de principe, non à l'échelle	Unité : mm

Nomenclature dimensionnelle

Repère	Composant	Dimension de préparation	Quantité
1	Pétale textile	75 mm × 55 mm	5
2	Cœur décoratif	Diamètre 20 mm	1
3	Base textile de renfort	30 mm × 20 mm	1
4	Pince métallique	Longueur 60 mm	1

Dimensions et quantités pour un accessoire

DT 3 : RESSOURCES, PRIX ET PARAMÈTRES DE FABRICATION

Les valeurs ci-dessous sont les seules données nécessaires aux calculs de matière et de temps. Le tissu principal est fourni en laize utile de 1 400 mm et vendu au mètre linéaire. Les pétales sont coupés dans des rectangles de 75 mm × 55 mm. Pour établir le plan de coupe, placer le côté de 55 mm dans la largeur du tissu. Ne pas tenir compte des espacements entre pièces dans le calcul théorique, puis appliquer la majoration de 10 % prévue pour les chutes et défauts. La longueur de tissu achetée est arrondie au multiple supérieur de 0,10 m.

FormaV - document d'entraînement non officiel

Fiche des matières et temps de fabrication

Ressource	Donnée par accessoire	Prix ou paramètre
Tissu principal	5 pièces de 75 mm × 55 mm	Laize utile : 1 400 mm ; 18,00 € par mètre linéaire
Cœur décoratif	1 pièce	0,22 € par pièce
Pince métallique	1 pièce	0,48 € par pièce
Fil de couture	0,25 m	0,03 € par mètre
Assemblage	6 min par accessoire	Préparation du poste : 15 min par série
Marge de coupe	10 % de la longueur théorique	Ajouter avant arrondi d'achat

Données de calcul pour une commande de douze accessoires

Relations de calcul utiles

Grandeur	Relation
Nombre total de pétales	$N_p = 5 \times N_a$
Pièces par rangée	$N_r = \lfloor 1400 / 55 \rfloor$
Nombre de rangées	$N_{rangées} = \lceil N_p / N_r \rceil$
Longueur théorique	$L_{utile} = N_{rangées} \times 75\ \text{mm}$
Longueur avec marge	$L_{prévisionnelle} = L_{utile} \times 1,10$
Coût matière	$C = q \times p$

Formules applicables aux données du dossier

FormaV - document d'entraînement non officiel

NE RIEN ÉCRIRE DANS CETTE PARTIE

DR 1 : Document réponse à rendre avec la copie : Questions 3.1, 3.2, 4.1 et 4.2 — **À RENDRE AVEC LA COPIE**

Compléter les tableaux avec les calculs, les unités et les réponses demandées. Pour les risques, inscrire une mesure de prévention concrète dans chaque ligne. Le document peut être complété directement ou reproduit lisiblement sur la copie.

Feuille de débit et calcul du coût matière

Donnée ou résultat	Calcul	Résultat
Nombre d'accessoires	Donnée de commande	12
Nombre total de pétales	.....	.....
Nombre de pétales par rangée	.....	.....
Nombre de rangées	.....	.....
Longueur théorique de tissu	.....	... m
Longueur après majoration de 10 %	.....	... m
Longueur à acheter après arrondi	.....	... m
Coût du tissu	.....	... €
Coût des cœurs pour la série	.....	... €
Coût des pinces pour la série	.....	... €
Coût du fil pour la série	.....	... €
Coût total de matière de la série	.....	... €

FormaV - document d'entraînement non officiel

Analyse des risques et mesures de prévention

Situation	Risque possible	Mesure de prévention
Découpe des pièces	Coupure ou blessure par l'outil	.....
Couture à la main	Piqûre avec une aiguille	.....
Poste encombré	Gêne, perte de matériel ou incident	.....
Outil chauffant, si nécessaire	Brûlure ou départ de feu	.....

Cadre réservé aux justifications, calculs complémentaires ou schémas du candidat :

.....

.....

.....

.....

.....

.....

.....

FormaV - document d'entraînement non officiel

NE RIEN ÉCRIRE DANS CETTE PARTIE

DR 2 : Document réponse à rendre avec la copie : Questions 2.1 et 2.2

À RENDRE AVEC LA COPIE

Réaliser dans la zone de travail une proposition graphique de face, annotée et en couleur. Indiquer les matières, les coloris, les dimensions réelles prévues et les détails de finition. La représentation doit rendre lisibles les cinq pétales, le cœur et la fixation au revers.

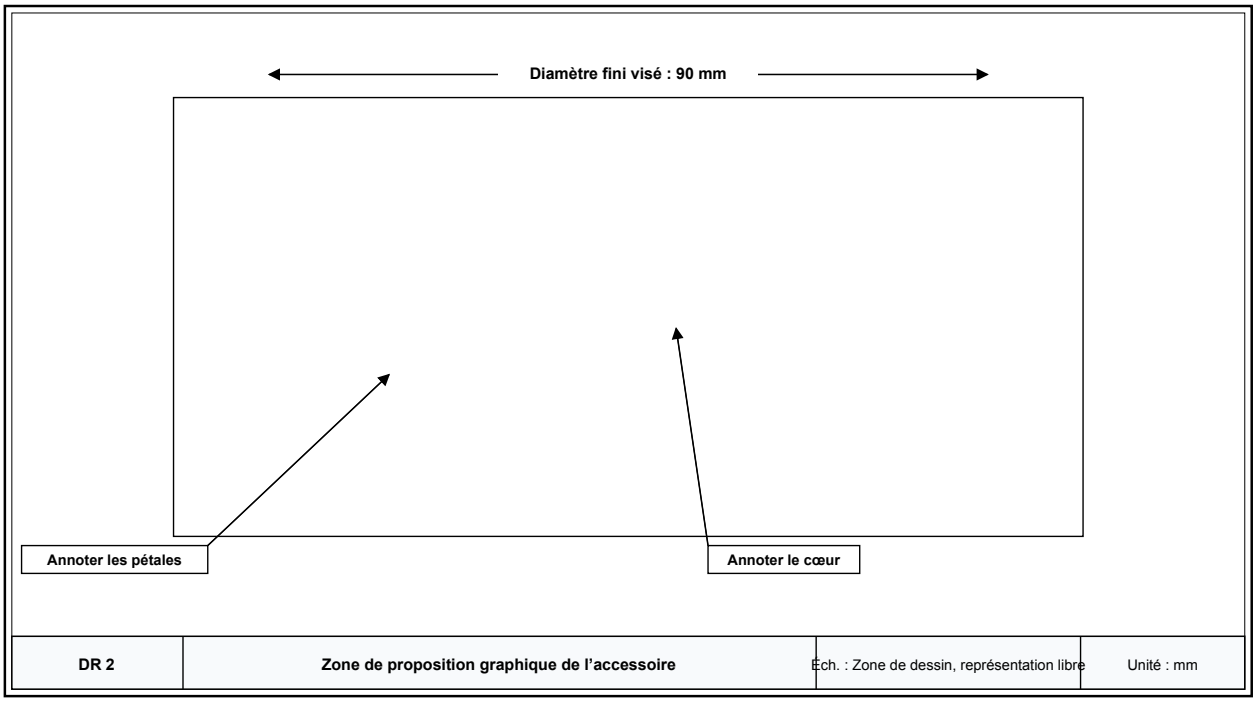

Annotations à faire figurer sur la proposition

Élément à annoter	Réponse du candidat
Matière des pétales et coloris	.....
Matière et aspect du cœur	.....
Principe de fixation au revers	.....
Détail de finition 1	.....
Détail de finition 2	.....

FormaV - document d'entraînement non officiel

Cadre réservé aux justifications, calculs complémentaires ou schémas du candidat :

FormaV - document d'entraînement non officiel

Continue à t'entraîner

Retrouve tous les sujets et corrigés du CAP Fleuriste de mode, classés par épreuve et par année :
capfleuristedemode.fr/annales-sujets-et-corriges

Pour réviser tout le programme avant l'examen, les Fiches de Révision du CAP Fleuriste de mode reprennent l'essentiel de chaque épreuve :
capfleuristedemode.fr/fiches-de-revision

Copyright © 2027 FormaV®. Tous droits réservés.

FormaV® est une marque déposée auprès de l'INPI sous le numéro 5227897.

Ce document a été élaboré par FormaV® avec le plus grand soin afin d'accompagner chaque apprenant vers la réussite de ses examens. Son contenu (textes, graphiques, méthodologies, tableaux, exercices, concepts, mises en forme) constitue une œuvre protégée par le droit d'auteur.

Toute copie, partage, reproduction, diffusion ou mise à disposition, même partielle, gratuite ou payante, est strictement interdite sans accord préalable et écrit de FormaV®, conformément aux articles L.111-1 et suivants du Code de la propriété intellectuelle. Dans une logique anti-plagiat, FormaV® se réserve le droit de vérifier toute utilisation illicite, y compris sur les plateformes en ligne ou sites tiers.

En utilisant ce document, vous vous engagez à respecter ces règles et à préserver l'intégrité du travail fourni. La consultation de ce document est strictement personnelle.

Merci de respecter le travail accompli afin de permettre la création continue de ressources pédagogiques fiables et accessibles.